Wizualny przewodnik diagnostyki bez schematu

Rozpoznawaj funkcje elementów, śledź połączenia i zapisuj dowody. Praktyczny atlas oględzin zasilacza impulsowego: od wejścia sieciowego po sprzężenie zwrotne, bez zgadywania pinów i punktów odniesienia.



Najpierw przygotuj płytkę i dokumentację

Celem jest rozpoznanie funkcji bloków na odłączonej płytce. Sam wygląd elementu daje hipotezę; połączenia i dokumentacja pozwalają ją potwierdzić.







1. Odłącz wszystkie źródła energii, także akumulator i zewnętrzne zasilanie. Odczekanie określonego czasu samo w sobie nie potwierdza rozładowania kondensatorów.

2. Potwierdź bezpieczny stan odpowiednim przyrządem i procedurą. Przed badaniem pojemności kondensator musi być rozładowany, a brak napięcia sprawdzony. [1, 2]

3. Zrób ostre zdjęcia obu stron. Zaznacz orientację, złącza, numery elementów oraz miejsca zasłonięte radiatorem. Zachowaj zdjęcie przed demontażem.

4. Nadaj każdemu ustaleniu status: potwierdzone, prawdopodobne albo nierozstrzygnięte. Bez schematu nie wolno zakładać pinów tranzystora, diody ani sterownika.

5. **Wynik: czytelna dokumentacja płytki i lista niewiadomych.**
Nie rozpoczynaj od zasilania układu, którego obszarów odniesienia jeszcze nie rozpoznano.

Gdzie przebiega bariera izolacyjna?

Szukaj pasa rozdzielającego miedź strony pierwotnej i wtórnej. Pomagają wycięcia w laminacie, odstępy oraz transformator obejmujący oba obszary.



1 Prześledź stronę wejściową do prostownika i kondensatora głównego. To obszar pierwotny; jego lokalny punkt odniesienia nie jest automatycznie przewodem ochronnym.



2 Po drugiej stronie transformatora szukaj prostowania i złącza wyjściowego. Oznacz lokalny powrót wtórny oddzielnym symbolem, dopóki połączenie nie zostanie potwierdzone.



3 Optoizolator i odpowiednio przeznaczony kondensator bezpieczeństwa mogą przekraczać granicę. Ich obecność nie oznacza wspólnej masy obu stron.



! Nie oceniaj bezpieczeństwa izolacji wyłącznie na podstawie szerokości szczeliny na zdjęciu. Zabrudzenie, uszkodzenie lub przeróbka wymagają odrębnej oceny.



Zapisz oba punkty odniesienia. Przy przyszłych pomiarach oscyloskopem dobór sondy musi uwzględniać napięcie względem ziemi; nie odłączaj uziemienia ochronnego oscyloskopu. [3]

Wejście: rozpoznawaj po funkcji i połączeniu

Zacznij od gniazda lub przewodów wejściowych i śledź każdą żyłę. Pozycja obok wejścia nie wystarcza do rozpoznania elementu.



1. Bezpiecznik zwykle leży szeregowo w torze zasilania. Potwierdź jego oznaczenie i przebieg ścieżki; nie zastępuj go przewodem ani elementem o przypadkowych parametrach.

2. Dławik filtra może mieć dwa sprzężone uzwojenia. Śledź obie gałęzie osobno, aby nie uznać sąsiednich wyprowadzeń za jeden przewodnik.

3. Element tarczowy może pełnić różne funkcje. Dopiero oznaczenie i połączenie szeregowe lub równoległe pomagają odróżnić ogranicznik prądu rozruchowego od warystora.

4. Dwa wyprowadzenia kondensatora trafiają do dwóch przewodów wejściowych: zapisujesz połączenie między nimi. Klasę bezpieczeństwa ustalasz z czytelnego oznaczenia, nie z koloru obudowy.

5. Rezultat oględzin to przebieg toru wejściowego i lista elementów do identyfikacji. Wszystkie próby ciągłości wykonuj dopiero po potwierdzeniu bezpiecznego stanu. [1]

Mostek i kondensator główny



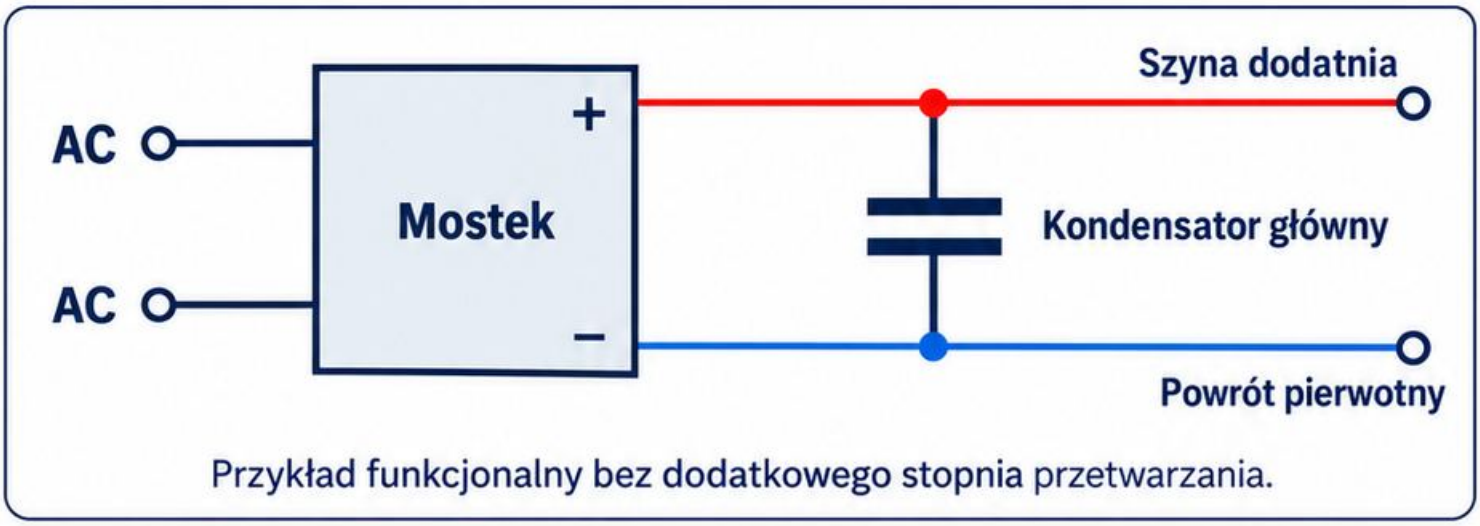

Przykład funkcjonalny bez dodatkowego stopnia przetwarzania.

Odszukaj prostownik między torem wejściowym a szyną napięcia stałego. Może być pojedynczym mostkiem albo zespołem oddzielnych diod.

Odczytaj oznaczenia obudowy i dokumentację. Symbole wejść przemiennych oraz biegunów wyjściowych potwierdzaj dla konkretnej części, zamiast przenosić układ pinów z pamięci.

Prześledź połączenia do kondensatora głównego. Zaznacz oba bieguny na zdjęciu miedzi; znak na obudowie kondensatora porównaj z oznaczeniem płytki.

Duży elektrolit jest wskazówką, lecz nie dowodem pełnej topologii. Między prostownikiem a nim może znajdować się dodattkowy stopień przetwarzania.

Nie dotykaj wyprowadzeń i nie badaj ich ciągłości przed sprawdzeniem napięcia resztkowego. Procedura pomiaru pojemności wymaga rozładowania. [2]

Zapisz: wejścia prostownika, dodatnia szyna, powrót pierwotny oraz elementy pośrednie. Jeśli ścieżka znika pod częścią, oznacz lukę zamiast dorysowywać pewne połączenie.

Rozruch i VCC: znajdź drogę zasilania sterownika



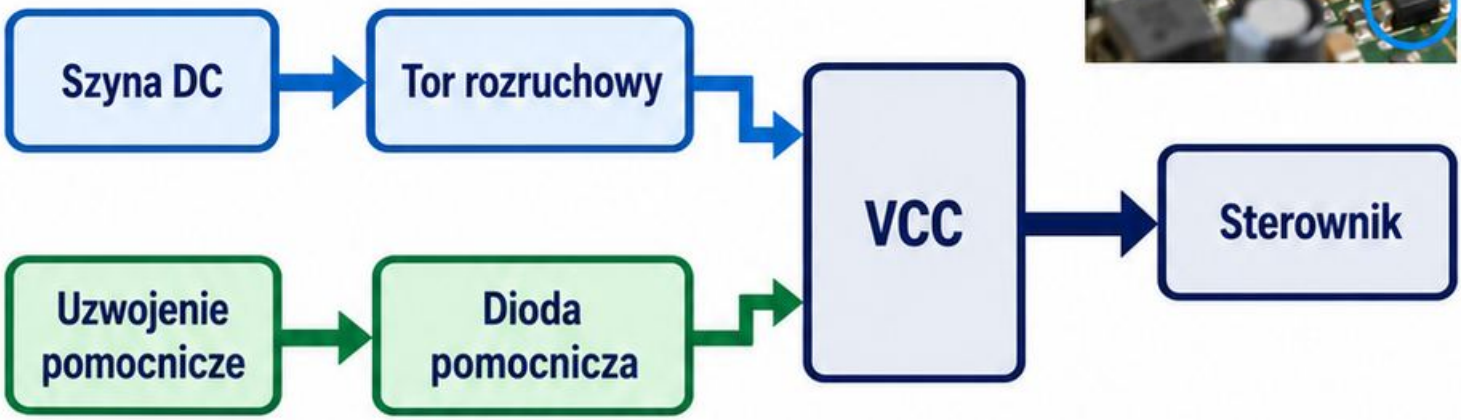

Rozruch i podtrzymanie to dwie różne drogi zasilania.

1. Mały kondensator obok sterownika często należy do jego zasilania. Nie określaj funkcji wyłącznie po rozmiarze: sprawdź połączenie z właściwym pinem.

2. Odczytaj pełne oznaczenie układu i znajdź oficjalną notę. Ustal pin VCC, lokalny powrót oraz orientację obudowy przed śledzeniem ścieżek.

3. Sprawdź, skąd energia dochodzi do VCC. Możliwy jest tor rezystorowy, zintegrowany rozruch wysokonapięciowy lub inne rozwiązanie przewidziane przez producenta.

! W przykładowym UCC28740 występuje dedykowane rozwiązanie rozruchu oraz zasilanie związane z uzwojeniem pomocniczym. Nie przenoś tego układu na każdy sterownik. [4]

4. Dioda łączy uzwojenie pomocnicze z kondensatorem VCC: zapisujesz kierunek połączenia i oznaczenie diody, a nie domyślną wartość napięcia.

✓ **Wynik: osobno oznaczony tor startowy i tor podtrzymania zasilania. Nieczytelny symbol sterownika pozostawia pin VCC nierozstrzygnięty.**

Sterownik i stopień mocy

Tranzystor przy transformatorze jest kandydatem na klucz mocy. Obudowa, radiator i szeroka ścieżka pomagają go znaleźć, ale nie potwierdzają pinów.



1. Odczytaj oznaczenie i dokumentację tranzystora. Dopiero wtedy oznacz bramkę, dren i źródło albo wyprowadzenia innego typu elementu.
2. Śledź tor sterowania od układu przez elementy pośrednie do bramki. Rezystor szeregowy i dodatkowe diody mogą zmieniać przebieg tego połączenia.
3. Niskoomowy rezystor w torze prądowym może uczestniczyć w pomiarze prądu. Potwierdź drogę do wejścia pomiarowego; podobny wygląd nie dowodzi funkcji.

! Metalowa część obudowy i radiator nie muszą mieć potencjału ziemi. Nie wybieraj ich jako punktu odniesienia pomiaru.

✓ Zapisz trzy niezależne ustalenia: tor energii, tor sterowania i tor pomiarowy. Przykład flyback z UCC28740 jest pomocą architektoniczną, nie uniwersalnym schematem. [4]



Strona wtórna: od uzwojenia do wyjścia

1. Odnajdź wyprowadzenia transformatora po stronie wtórnej i prześledź je do elementów prostujących. Potem szukaj kondensatorów, dławika oraz złącza wyjściowego.

2. Prostownik może być diodą, zespołem diod albo układem z tranzystorami. Nie nazywaj każdego elementu na radiatorze diodą Schottky'ego.

3. Potwierdź wyprowadzenia w dokumentacji konkretnej części. W podwójnych diodach wspólna końcówka zależy od wykonania; identyczna obudowa nie gwarantuje identycznej konfiguracji.

4. Zidentyfikuj powrót wyjściowy przez połączenia kondensatorów i złącza. Nie utożsamiaj go automatycznie z obudową urządzenia lub powrotem pierwotnym.

5. Gruba ścieżka od prostownika biegnie przez dławik do dodatniego styku wyjścia. Zapisujesz rzeczywistą kolejność elementów, nawet jeśli różni się od zapamiętanego rysunku.

✓ **Rezultat: potwierdzony tor wyjściowy i jego lokalny punkt odniesienia. Przed pomiarami pasywnymi sprawdź odłączenie wszystkich źródeł, również zewnętrznego obciążenia z własnym zasilaniem. [1]**

Sprzężenie zwrotne: od wyjścia do regulatora

W układzie z optoizolatorem znajdź element przekraczający barierę. Następnie prześledź osobno jego stronę wyjściową i wejściową.

1. Po stronie wtórnej szukaj połączenia z napięciem wyjściowym, rezystorami i elementem regulacji. Oznaczenia części są ważniejsze niż podobieństwo do znanej aplikacji.

2. Po stronie pierwotnej ustal, do którego wejścia sterownika trafia sygnał. Potwierdź nazwę pinu w nocie i sprawdź elementy pośrednie.

UCC28740 jest przykładem sterownika flyback wykorzystującego informację przekazywaną przez optoizolator. To punkt odniesienia dla tego rozwiązania, nie reguła dla wszystkich zasilaczy. [4]

Brak optoizolatora nie dowodzi braku regulacji ani uszkodzenia. Możliwa jest inna architektura sprzężenia, wymagająca identyfikacji kontrolera.

Oznacz kierunek informacji strzałką od obserwowanego wyjścia do sterownika. Oddziel tę strzałkę od drogi przepływu energii, aby nie pomylić funkcji obu torów.





Przykład: jedna hipoteza, trzy dowody

Przykład dydaktyczny: poniższy diagram przedstawia obwód zasilania sterownika UCC28740. Hipoteza brzmi: kondensator C7 należy do jego zasilania VCC.

1 **Dowód pierwszy:** w tym przykładzie przyjęto sterownik UCC28740. Jego dokumentacja identyfikuje zasilanie jako VDD, a lokalny powrót jako GND. Na rzeczywistej płytce najpierw potwierdź oznaczenie i orientację obudowy. [4]



2 **Dowód drugi:** połączenie dodatniego wyprowadzenia kondensatora z tym pinem jest widoczne lub potwierdzone przy bezpiecznie odłączonym układzie.

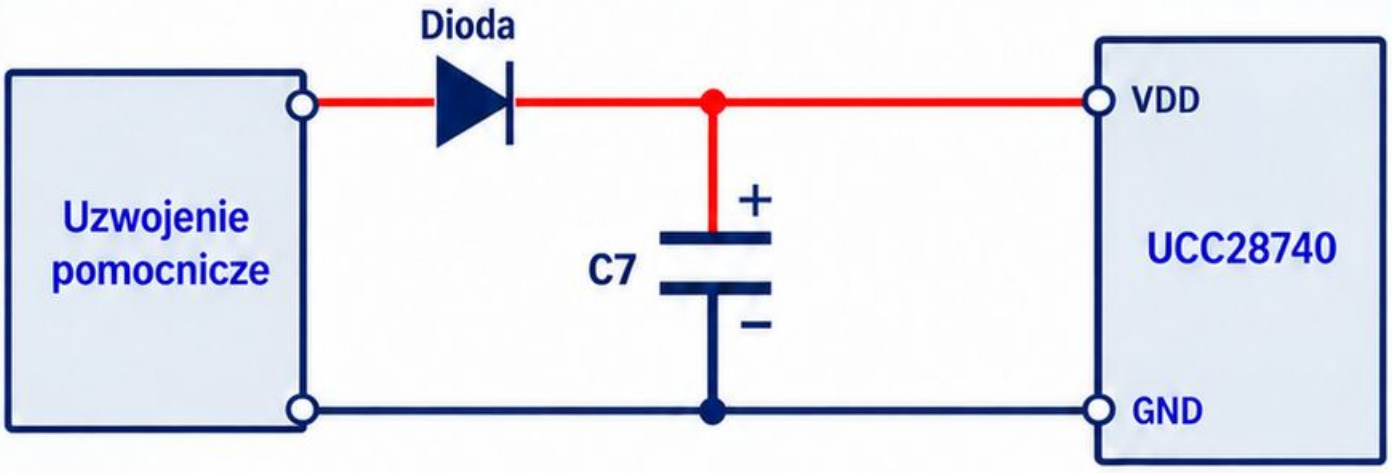

Przykład dydaktyczny: funkcja VCC jest tu realizowana przez pin VDD.

3 **Dowód trzeci:** ujemne wyprowadzenie kondensatora prowadzi do lokalnego powrotu sterownika, a dioda łączy uzwojenie pomocnicze z dodatnim węzłem VCC, zgodnie ze schematem aplikacyjnym.









Sygnał ciągłości może pochodzić z drogi równoległej. Nie dowodzi automatycznie bezpośredniej ścieżki między punktami.

Zapis: „Funkcja kondensatora VCC potwierdzona połączeniami". Nie zapisuj „napięcie prawidłowe", jeśli nie wykonano odpowiedniego pomiaru.

Wynik końcowy zawiera dowody i granice ustalenia. Brak widoczności jednej ścieżki pozostawia ten fragment jako prawdopodobny, zamiast podnosić całą hipotezę do pewności.

Karta identyfikacji bloków

Wypełniaj kartę dla jednej płytki i jednej wersji montażowej. Zapisuj obserwacje tak, aby druga osoba mogła odtworzyć tok identyfikacji.



Urządzenie / wersja płytki: _____ **Data:** _____ **Zdjęcia obu stron:** _____

Źródła energii i potwierdzony stan: _____ **Bariera izolacyjna:** _____

Powrót pierwotny / wtórny: _____

Blok i element: _____ **Oznaczenie części:** _____

Oficjalna dokumentacja: _____ **Widoczne połączenia:** _____

Status: potwierdzone / prawdopodobne / nierozstrzygnięte.

Brakujący dowód: _____ **Następny bezpieczny krok:** _____



Przykład dydaktyczny:
blok VCC; kondensator C7.
Plus prowadzi do pinu VCC ustalonego z noty sterownika, minus do jego powrotu. Funkcja potwierdzona.

Nie ustalono parametrów kondensatora ani napięcia roboczego.
Następny krok: odczytać oznaczenie C7 i porównać wymagania sterownika z dokumentacją konkretnej części.

Dla każdego bloku powtórz trzy pola: dowód, status, brakujące dane.
Nie zamieniaj pustego pola w domyślne założenie.

Źródła i sposób korzystania

Odsyłacze odnoszą się do dokumentacji producentów. Adresy skrócono do czytelnej postaci; wyszukaj podany tytuł na oficjalnej stronie, jeżeli struktura serwisu się zmieni.



1



[1] Fluke — Best Safety Practices for Taking Live Measurements.
fluke.com → Learn → Electrical safety.
Przygotowanie pracy i dobór bezpiecznej procedury.

2



[2] Fluke — How to Measure Capacitance with a Digital Multimeter.
fluke.com → Learn → Capacitance.
Rozładowanie kondensatora i warunki pomiaru.

3



[3] Tektronix — Floating Measurements Selection Guide.
tek.com/en/datasheet/floating-measurements-selection-guide.
Punkty odniesienia, pomiary pływające oraz odpowiedni dobór sond.

4



[4] Texas Instruments — UCC28740.
ti.com/product/UCC28740.
Oficjalna karta produktu, nota katalogowa i przykładowa aplikacja izolowanego zasilacza flyback.

Dokumentacja przykładowego sterownika pomaga rozumieć funkcje bloków. Pinout, limity i rozwiązanie rozruchu zawsze sprawdzaj dla pełnego oznaczenia części rzeczywiście zamontowanej na badanej płytce.